ТИКО-ОЛИМПИАДА

Санкт-Петербург, 2019

Эмблема:

УЧАСТНИК РАЙОННОЙ ОЛИМПИАДЫ

ТИКО

Санкт-Петербург

2019

Задание № 1

1. ЗАЧЕРКНИ ЛИШНЮЮ ГЕОМЕТРИЧЕСКУЮ ФИГУРУ

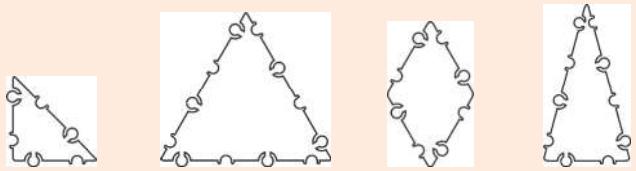

2. ОБВЕДИ ВСЕ ЧЕТЫРЁХУГОЛЬНИКИ

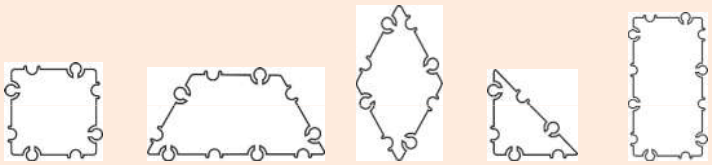

3. ОБВЕДИ САМЫЙ ВЫСОКИЙ И САМЫЙ НИЗКИЙ ДОМИК



Задание № 2

1. **ИЗ ПРЕДЛОЖЕННЫХ ГЕОМЕТРИЧЕСКИХ ФИГУР СЛОЖИ РОМБ**

РОМБ	ПРЕДЛОЖЕННЫЕ ФИГУРЫ
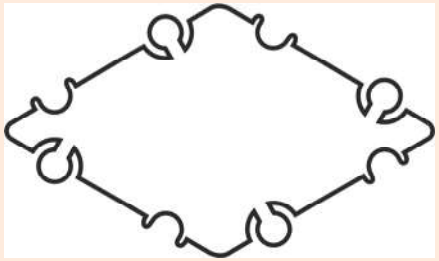	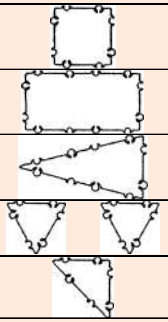

2. **СКОЛЬКО ТРЕУГОЛЬНИКОВ В ЭТОЙ ФИГУРЕ? ПОСЧИТАЙ И ОБВЕДИ НУЖНУЮ ЦИФРУ.**

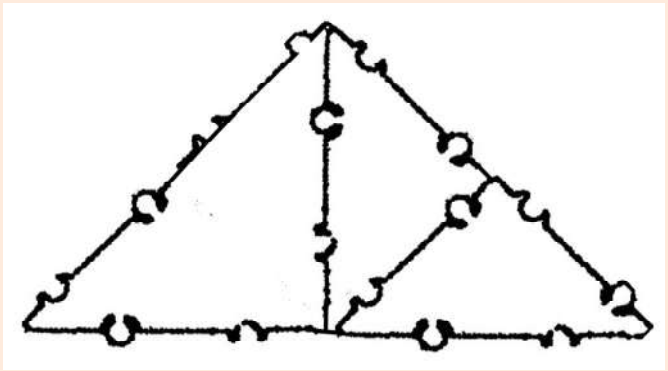

3	4	5

Разминка

Разминка

Разминка

Разминка

Задание № 3

РЕШИ ПРИМЕРЫ С ПОМОЩЬЮ ЧИСЛОВОГО ОТРЕЗКА И ПРИКРЕПИ К НИМ ТИКО-КВАДРАТЫ С ЦИФРАМИ:

3 + 1 =

5 + 2 =

6 – 1 =

7 + 2 =

9 – 1 =

ТИКО-КВАДРАТЫ С ЦИФРАМИ: 1 2 3 4 5 6 7 8 9

SPONSOR

Задание № 4

СОЕДИНИ СЛОГ С БУКВОЙ ТАК, ЧТОБЫ ПОЛУЧИЛОСЬ СЛОВО:

Д Ы

П А

К О

С О

З У

ТИКО-БУКВЫ: Р Т М Б Н

Задание № 5

1. ОПРЕДЕЛИ МЕСТО ЗВУКА «А» В СЛОВЕ И ВЫБЕРИ СХЕМУ:

АВТОБУС

ПЛАТЬЕ

ПУШКА

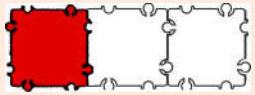



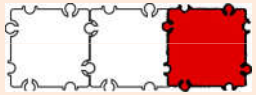

2. ОПРЕДЕЛИ МЕСТО ЗВУКА «М» В СЛОВЕ И ПОКАЖИ СХЕМУ:

МАШИНА

КОМАР

ДОМ

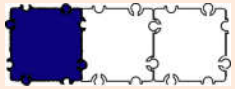



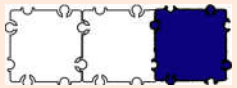

Задание: ОПРЕДЕЛИ МЕСТО ЗВУКА «М» В СЛОВЕ И ПОКАЖИ СХЕМУ
МАШИНА
КОМАР
ДОМ

Задание № 6

СЛОЖИ ИЗ ПРЕДЛОЖЕННЫХ ФИГУР КАК МОЖНО БОЛЬШЕ БОЛЬШИХ КВАДРАТОВ (образец – большой ТИКО-квадрат)

Предложенные фигуры:

- 6

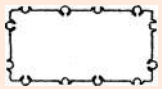 **- 3**

- 8

happy

Награждение

Награждение

Награждение

Награждение